Hausaufgaben für Montag, den 12. 10. 2015

1. Zeichen die Graphen folgender linearer Funktionen:
   a) f(x) = 2,5x+1
   b) g(x) = -3x+7
   c) h(x) = -x-2,4
   d) $k(x)=\frac{1}{4}x-\frac{7}{5}$
2. Bestimme die Funktionsgleichungen, die zu folgenden Graphen geführt haben:

a)

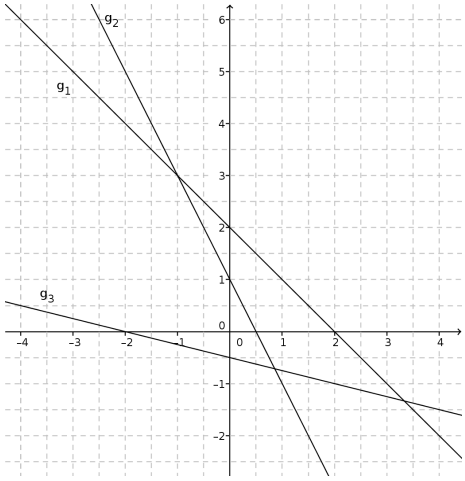

b)

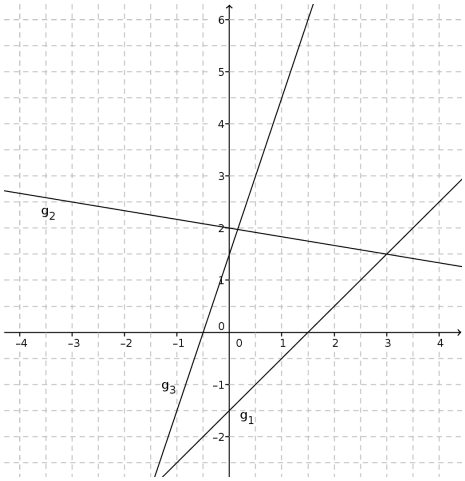
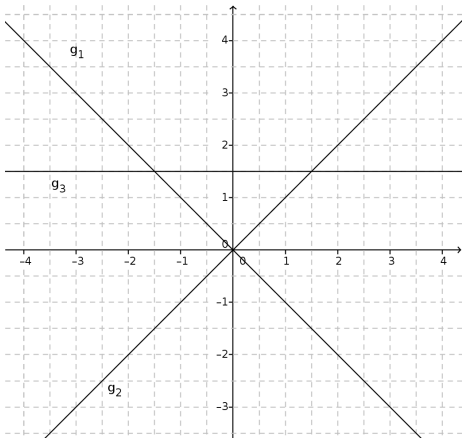
c)